Пресметај периметар на круг со радиус 3cm.	Пресметај периметар на круг со радиус 7,4cm.
Пресметај периметар на круг со дијаметар 37mm.	Пресметај периметар на круг со дијаметар 7,25mm.
Пресметај плоштина на круг со радиус 4cm.	Пресметај плоштина на круг со радиус 52mm.
Пресметај плоштина на круг со дијаметар 5,6dm.	Пресметај плоштина на круг со дијаметар 7,25dm.

Пресметај го радиусот на круг со периметар 217П cm.	Пресметај го радиусот на круг со периметар 314dm.
Пресметај го радиусот на круг со плоштина 324Пmm^2.	Пресметај го дијаметарот на круг со плоштина 907,46dm^2.
Пресметај ја плоштината на круг со периметар L=59,66cm.	Пресметај ја плоштината на круг со периметар L=21Пmm.
Пресметај го периметарот на круг со плоштина P=196Пcm^2.	Пресметај го периметарот на круг со плоштина P=706,5cm^2.

Пресметај плоштина на обоениот дел на фигурата:

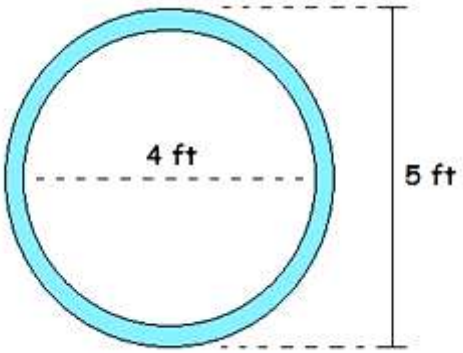

Пресметај плоштина на обоениот дел на фигурата:

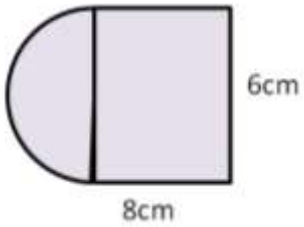

Пресметај плоштина на обоениот дел на фигурата:

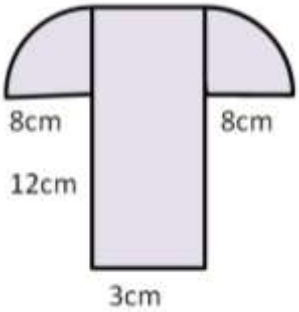

Пресметај периметар на фигурата:

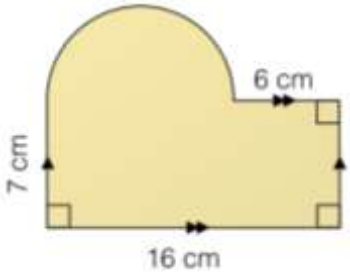

Пресметај периметар на фигурата:

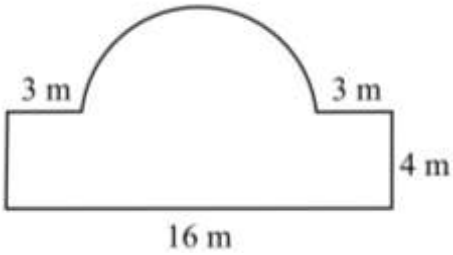

Пресметај плоштина на фигурата:

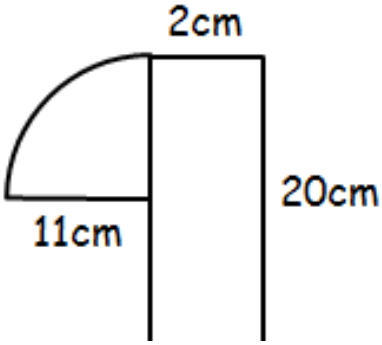

Пресметај периметар на фигурата:

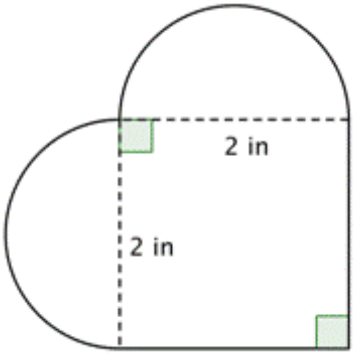
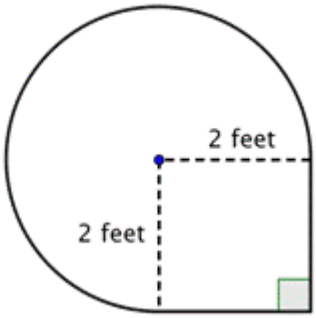
Пресметај периметар на фигурата: