ВИДОВИ ЧЕТИРИАГОЛНИЦИ

А: ДА РАЗМИСЛИМЕ

1. Кој од следните многуаголници е конвексен? За кој многуаголник велиме дека е конвексен?

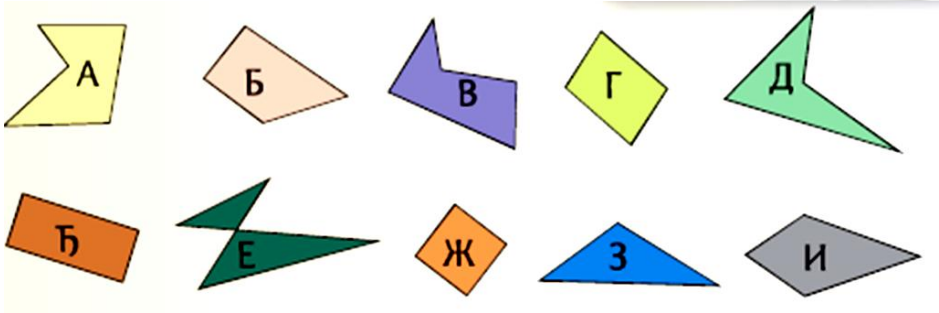

2. По колку пара паралелни страни има секој четириаголник на сликата подолу? Како се вика секој од тие четириаголници?

	број на парови паралелни страни	
паралелограм	2	
трапез	1	
трапезоид	0	

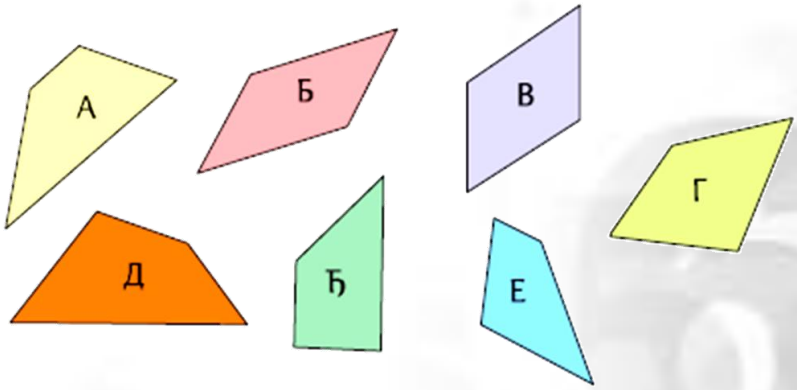

ОД КАДЕ ПОТЕКНУВААТ ИМИЊАТА НА ЧЕТИРИАГОЛНИЦИТЕ	
	ПАРАЛЕЛОГРАМ: грчки:parallelos-паралелен грчки: gramma- буква, црта
	КВАДРАТ латински: quadratus- четвртаст, четвороаголен
	ТРАПЕЗ грчки: trapeza (tetra- четири и pod- нога)
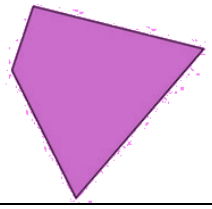	**ТРАПЕЗОИД** грчки:- oid (личи на)

Класифицирање на четириаголници

	Агли	**Должини на страни**	**Паралелни страни**	**Линии на симетрија**
Квадрат				
Триаголник				
Паралелограм				
Трапез				
Ромб				
Делтоид				

Наставник: С.Захариева
О.У."Св. Климент Охридски"-Битола

ЗА ДОМА:

Доцртај го цртежот на сликата така што да добиеш:

а. неконвексен четириаголник

б. трапезоид

в. треапез

г. делтоид
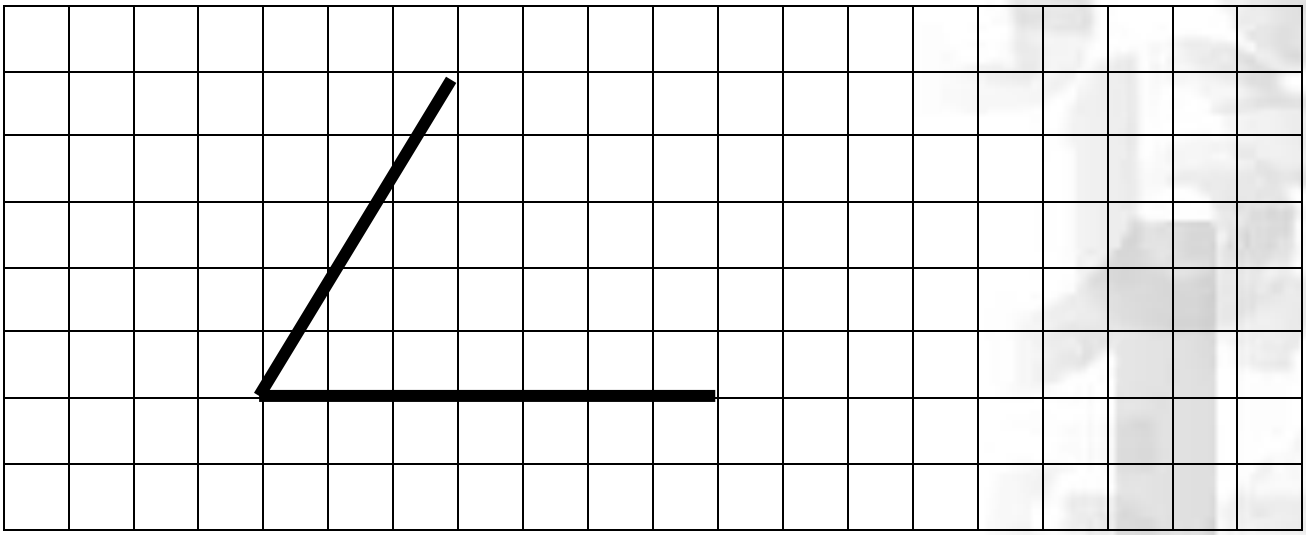
д. паралелограм