КВАДРАТ



Означи го квадратот на сликата и запиши:

Темиња: _____

Агли: _____

Страни: _____

Дијагонали: _____

Еднакви страни:_____

Паралелни страни:_____

Еднакви агли: _____

1. Квадратот има _____страни.
2. Страните на квадратот _____ меѓу себе.
3. Квадратот има _____ агли.
4. Аглите во квадратот се _____.
5. Квадратот има _____ дијагонали и тие се _____ меѓу себе. (измери ја нивната должина)
6. Дијагоналите во квадратот се _____. (измери го аголот меѓу нив)
7. Точката во која што се сечат дијагоналите на квадратот е _____за нив.

Нацртај неколку квадрати.

Free resources from www.mathsphere.co.uk

ПРАВОАГОЛНИК



Означи го правоаголникот на сликата и запиши:

Темиња: _____

Агли: _____

Страни: _____

Дијагонали: _____

Еднакви страни:_____

Паралелни страни:_____

Еднакви агли: _____

1. Правоаголникот има _____страни.
2. Спротивните страни на правоаголникот се _____ меѓу себе.
3. Правоаголникот има _____ агли.
4. Аглите во правоаголникот се _____.
5. Правоаголникот има _____ дијагонали и тие се _____ меѓу себе. (измери ја нивната должина).
6. Точката во која што се сечат дијагоналите на правоаголникот е _____за нив.

Нацртај неколку правоаголници.

Free resources from www.mathsphere.co.uk

РОМБ

Означи го ромбот на сликата и запиши:

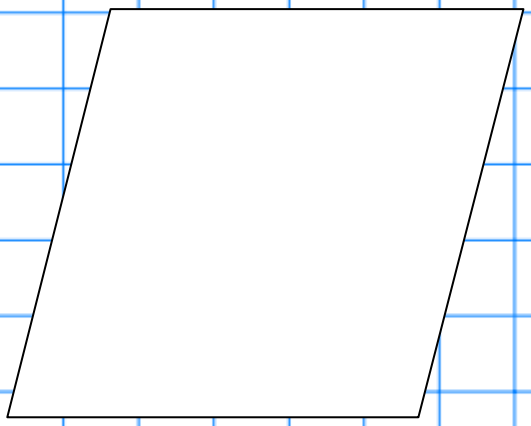

Темиња: _____

Агли: _____

Страни: _____

Дијагонали: _____

Еднакви страни:_____

Паралелни страни:_____

Еднакви агли: _____

1. Ромбот има _____страни.
2. Страните на ромбот _____ меѓу себе.
3. Ромбот има _____ агли.
4. Спротивните агли во ромбот се _____.
5. Збирот на соседните агли е _____.
6. Ромбот има _____ дијагонали и тие се _____ меѓу себе. (измери ја нивната должина)
7. Дијагоналите во ромбот се _____. (измери го аголот меѓу нив)
8. Точката во која што се сечат дијагоналите на ромбот е _____ за нив.

Нацртај неколку ромбови.

Free resources from www.mathsphere.co.uk

ПАРАЛЕЛОГРАМ

Означи го паралелограмот на сликата и запиши:



Темиња: _____

Агли: _____

Страни: _____

Дијагонали: _____

Еднакви страни:_____

Паралелни страни:_____

Еднакви агли: _____

1. Паралелограмот има _____страни.
2. Спротивните страни на паралелограмот _____ меѓу себе.
3. Паралелограот има _____ агли.
4. Спротивните агли во паралелограмот се _____.
5. Збирот на соседните агли во паралелограмот е _____.
6. Паралелограмот има _____ дијагонали .
7. Точката во која што се сечат дијагоналите на паралелограмот е _____ за нив.

Нацртај неколку паралелограми.

Free resources from www.mathsphere.co.uk

ТРАПЕЗ

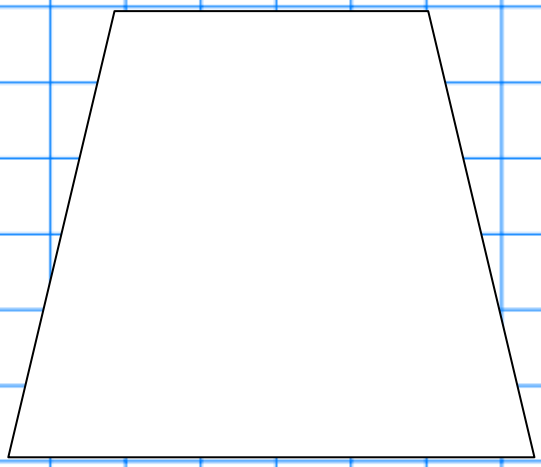

Означи го трапезот на сликата и запиши:

Темиња: _____

Агли: _____

Страни: _____

Дијагонали: _____

Основи: _____

Краци:_____

Паралелни страни:_____

1. Трапезот има _____страни.
2. Основите на трапезот _____ меѓу себе.
3. Трапезот има _____ агли.
4. Збирот на аглите кои лежат на ист крак е _____.
5. Трапезот има _____ дијагонали .

Нацртај неколку трапези (вклучувајќи и рамнокрак и правоаголен трапез).

Free resources from www.mathsphere.co.uk

ДЕЛТОИД

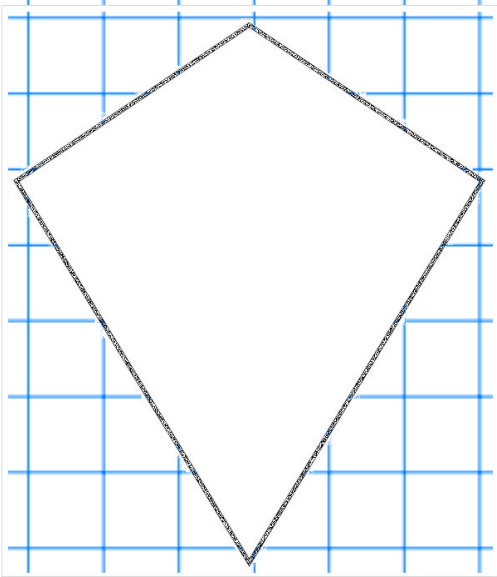

Означи го делтоидот на сликата и запиши:

Темиња: _____

Агли: _____

Страни: _____

Дијагонали: _____

Еднакви страни:_____

Паралелни страни:_____

Еднакви агли: _____

1. Делтоидот има _____страни.
2. Два пара соседни страни на делтоидот _____ меѓу себе.
3. Делтоидот има _____ агли.
4. Аглите формирани од страните со различна должина се _____.
5. Делтоидот има _____ дијагонали .
6. Дијагоналите во делтоидот се _____. (измери го аголот меѓу нив)

Нацртај неколку делтоиди.

Free resources from www.mathsphere.co.uk